Opdracht 1

Bepaal de grootte van de krachten die hieronder getekend zijn.

1 cm ≙ 10 N 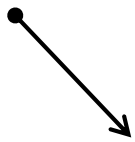	1 cm ≙ 25 N	1 cm ≙ 15 N 	1 cm ≙ 50 N	1 cm ≙ 75 N 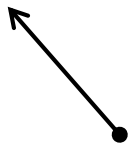

1 cm ≙ 8 N	1 cm ≙ 30 N	1 cm ≙ 40 N 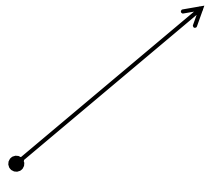	1 cm ≙ 2 N	1 cm ≙ 4 N

Opdracht 2

Teken in het raster hieronder de volgende krachten vanaf het aangrijpingspunt dat al getekend is.

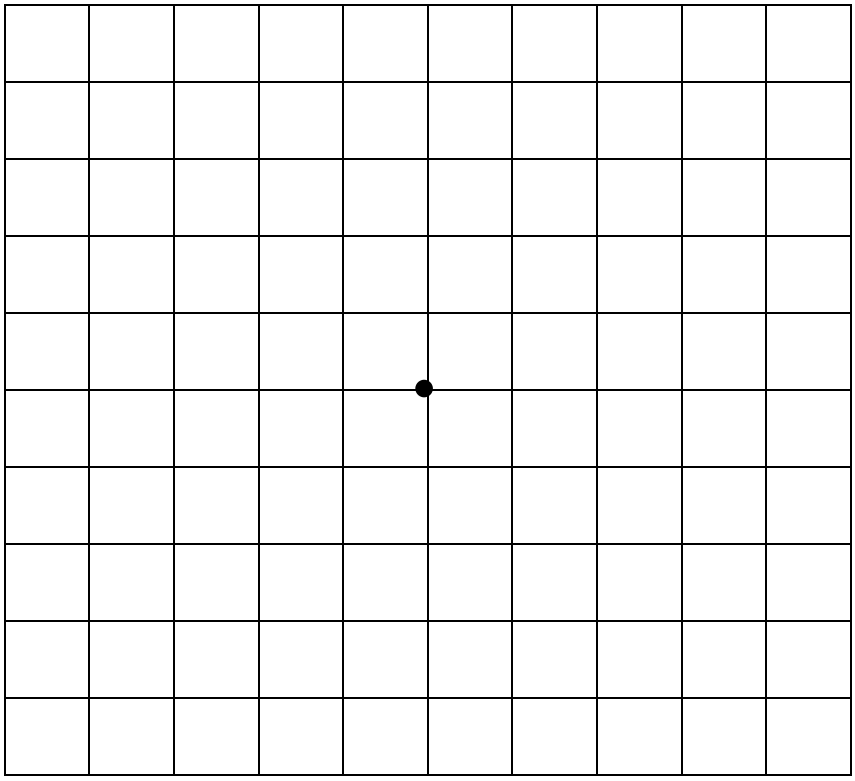

200 N naar links.
160 N naar links boven.
180 N naar boven.
155 N naar rechts boven.
132 N naar rechts.
20 N naar rechts onder.
60 N naar onder.
92 N naar links onder.

1 cm ≙ 40 N